Rallye mathématique de Loire-Atlantique 2023

Deuxième épreuve

Bulletin Réponse

N° d'inscription : .....

Catégorie : ☐ Mixte cycle 3 ☐ 6ème

Établissement : .....

Classe ou groupe : .....

Cadre réservé aux correcteurs

Problèmes : .....

Points : .....

N'oubliez pas de cocher les quatre problèmes que vous choisissez !

Problème 1

10 points

Voici la figure ayant maintenant un axe de symétrie :



Problème 2

15 points

Voici le résultat de l'opération :



Problème 3

10 points

☐ cubes ont été utilisés.

Problème 4

15 points

Voici la grille complétée :

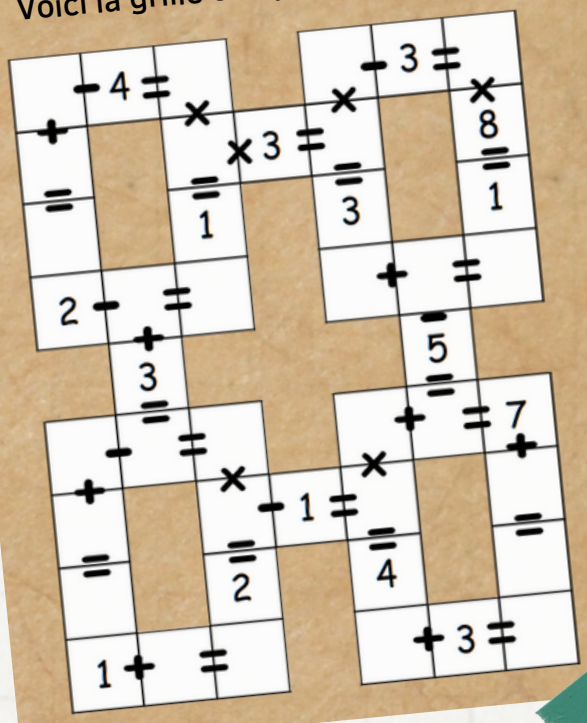

N° d'inscription : .....

☐ Problème 5

15 points

Voici les ponts :

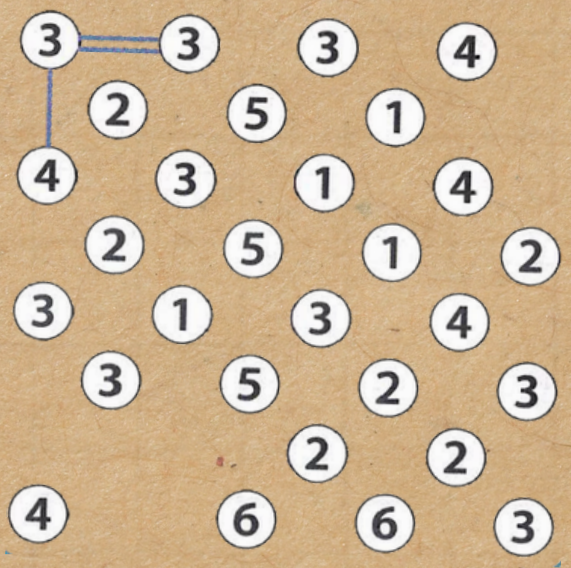

☐ Problème 6

15 points

Voici le disque coupé par une droite :

☐ Problème 7

10 points

Voici les nombres entiers :

☐ Problème 8

20 points

La fille aux cheveux châtains a les yeux ☐.

☐ Problème 9

20 points

La plaque de la 500ème voiture portera les lettres : ☐

☐ Problème 10

10 points

Voici la grille complétée :

0	0		0	
			3	
	0		0	
	0			
4			7	7

☐ Problème 11

8 points

Ce solide est constitué de ☐ cubes.

☐ Problème 12

10 points

Le nombre ☐ se trouve en 15ème position.